La llibreta
ACADEMIA

GEOGRAFÍA

SIMULACROS DE EXAMEN PCE

La llibreta
ACADEMIA

ANTES DE EMPEZAR

Este cuaderno ha sido creado por Academia La Llibreta como material propio de práctica para la preparación de Geografía en las PCE.

No reproduce exámenes oficiales de UNEDasiss ni debe entenderse como un modelo publicado por dicha institución. Su finalidad es orientativa y educativa: ayudarte a practicar con ejercicios de nivel adecuado, familiarizarte con el formato de la prueba y ganar seguridad antes del examen.

Te recomendamos utilizar estos simulacros como parte de tu preparación, junto con el estudio del temario, la revisión de errores y la consulta de las fuentes oficiales actualizadas.

Esperamos que estos simulacros te ayuden a detectar qué dominas y qué necesitas reforzar. ¡Ánimo!

ACADEMIA La llibreta
www.academialallibreta.es
Gran vía Fernando el Católico 23
46008 Valencia

EXAMEN DE PRÁCTICA: GEOGRAFÍA
MODELO A

PARTE 1

Responda únicamente a una de las dos preguntas que se plantean utilizando el espacio tasado en esta hoja y parte de la siguiente. No escriba en el reverso de la hoja. La puntuación máxima es de 2,5 puntos

OPCIÓN A

- Explique la formación y las principales características del relieve de la Meseta Central. Diferencie sus unidades interiores y sus rebordes montañosos.

OPCIÓN B

- Analice la distribución territorial de la población española. Explique los principales contrastes de densidad y sus causas físicas, históricas y económicas.

PARTE 2

Responda únicamente a una de las dos preguntas que se plantean utilizando el espacio tasado en esta hoja y parte de la siguiente. No escriba en el reverso de la hoja. La puntuación máxima es de 2,5 puntos

OPCIÓN A

- Describa los principales dominios climáticos de España y señale sus diferencias de temperaturas, precipitaciones y localización.

OPCIÓN B

- Explique las características de la transición demográfica española y las consecuencias actuales del envejecimiento de la población.

ACADEMIA La llibreta
www.academialallibreta.es
Gran vía Fernando el Católico 23
46008 Valencia

EXAMEN DE PRÁCTICA: GEOGRAFÍA
MODELO A

PARTE 3

Bloque de 10 preguntas objetivas. CONTESTE ÚNICAMENTE 8. En caso de responder a más de 8 preguntas se tendrán en cuenta únicamente las 8 primeras. Cada acierto suma 0,25 puntos, cada error resta 0,1 y las preguntas en blanco no computan. VALOR TOTAL DE LA PRUEBA: 2 PUNTOS

1. ¿Qué cordillera separa las cuencas del Duero y del Tajo?

a) Sistema Ibérico
b) Sistema Central
c) Cordillera Cantábrico

2. La depresión del Guadalquivir se abre hacia el...

a) océano Atlántico
b) mar Cantábrico
c) mar Mediterráneo

3. En un climograma, la precipitación se expresa normalmente en...

a) milímetros
b) grados Celsius
c) hectáreas

4. ¿Qué factor favorece las precipitaciones orográficas?

a) Ausencia de relieve
b) Ascenso del aire por una montaña
c) Descenso constante del aire

5. La amplitud térmica anual es...

a) la media de todas las temperaturas
b) la diferencia entre el mes más cálido y el más frío
c) la temperatura máxima diaria

6. El saldo natural es la diferencia entre...

a) inmigraciones y emigraciones
b) nacimientos y defunciones
c) población urbana y rural

ACADEMIA La llibreta
www.academialallibreta.es
Gran vía Fernando el Católico 23
46008 Valencia

EXAMEN DE PRÁCTICA: GEOGRAFÍA
MODELO A

7. La densidad de población se calcula en...
a) habitantes por km^2
b) km^2 por habitante
c) nacimientos por mil

8. La vertiente cantábrica presenta ríos generalmente...
a) cortos y relativamente caudalosos
b) muy largos y de estiaje extremo
c) sin desembocadura marina

9. Las islas Canarias son de origen principalmente...
a) volcánico
b) glaciar
c) sedimentario continental

10. El clima mediterráneo se caracteriza por...
a) precipitaciones estivales regulares
b) sequía estival
c) ausencia de variaciones interanuales

ACADEMIA La llibreta
www.academialallibreta.es
Gran vía Fernando el Católico 23
46008 Valencia

EXAMEN DE PRÁCTICA: GEOGRAFÍA
MODELO A

PARTE 4
PRUEBA PRÁCTICA

CONTESTE A UNA DE LAS DOS OPCIONES. Responda a continuación del enunciado. Su respuesta debe tener una extensión máxima de una hoja por las dos caras. Valor total 3 puntos.

OPCIÓN A

Climograma de una estación mediterránea (datos didácticos)

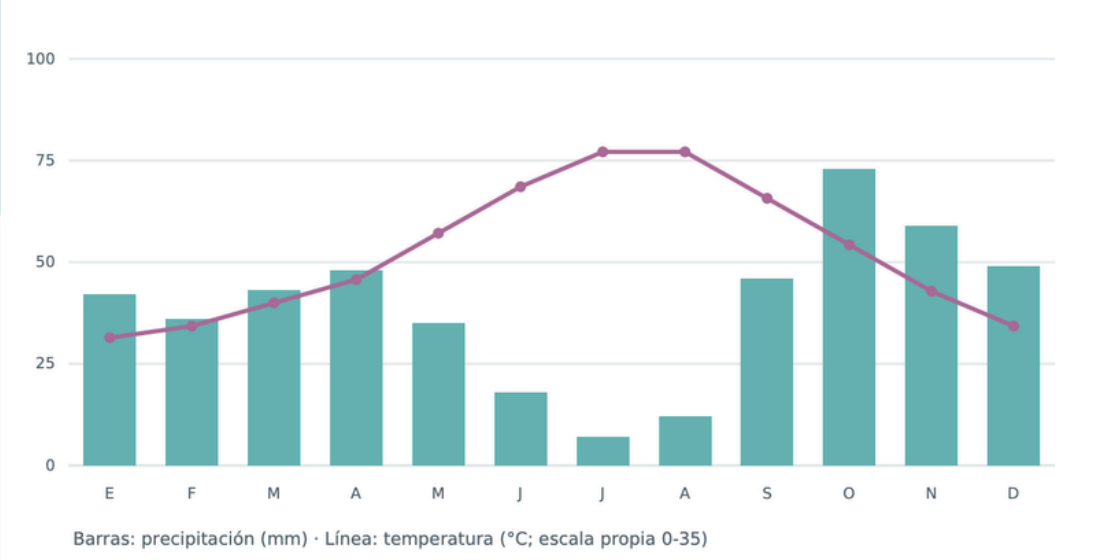

CUESTIONES:

1. Describa la evolución anual de las temperaturas y las precipitaciones. Calcule la amplitud térmica anual.
2. Identifique el dominio climático probable y justifíquelo mediante los datos.
3. Explique los factores geográficos que condicionan este clima.
4. Indique dos riesgos ambientales asociados y posibles medidas de adaptación.

ACADEMIA La llibreta
www.academialallibreta.es
Gran vía Fernando el Católico 23
46008 Valencia

EXAMEN DE PRÁCTICA: GEOGRAFÍA
MODELO A

PARTE 4

OPCIÓN B

Comentario de un bloque-diagrama del relieve (datos didácticos)

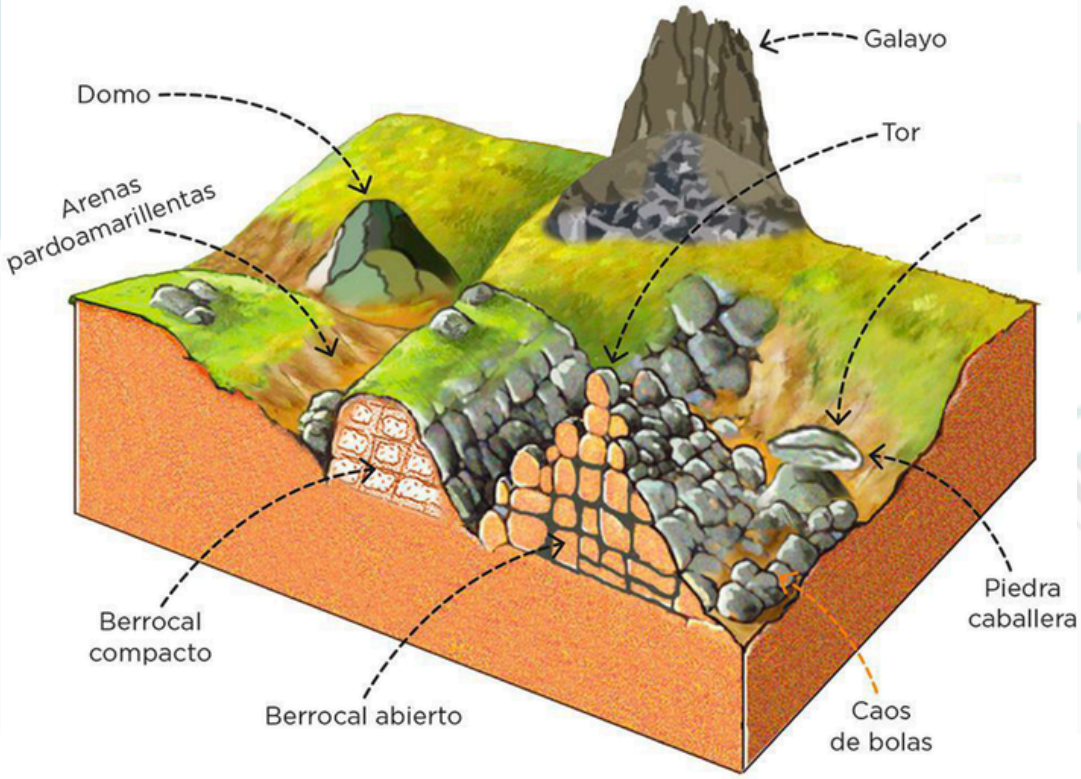

CUESTIONES:

1. ¿Qué tipo de relieve representa el bloque-diagrama? Indique el tipo de roca sobre el que se desarrolla y sus principales características.
2. Explique cómo se origina este tipo de relieve, haciendo referencia a la meteorización física y química, la acción del agua y la influencia de las fracturas o diaclasas.
3. Describa las principales formas del relieve granítico representadas en el bloque-diagrama. Explique qué son un domo, un tor, un galayo, un berrocal y una piedra caballera, e indique cómo se forman.
4. Señale las principales áreas de España donde aparece el relieve granítico y mencione al menos tres ejemplos de paisajes característicos.

ACADEMIA La llibreta
www.academialallibreta.es
Gran vía Fernando el Católico 23
46008 Valencia

EXAMEN DE PRÁCTICA: GEOGRAFÍA
MODELO B

PARTE 1

Responda únicamente a una de las dos preguntas que se plantean utilizando el espacio tasado en esta hoja y parte de la siguiente. No escriba en el reverso de la hoja. La puntuación máxima es de 2,5 puntos

OPCIÓN A

- Explique las características de las tres vertientes hidrográficas peninsulares, con ejemplos de ríos y sus regímenes.

OPCIÓN B

- Describa las principales unidades del relieve de las cordilleras exteriores a la Meseta y su origen geológico.

PARTE 2

Responda únicamente a una de las dos preguntas que se plantean utilizando el espacio tasado en esta hoja y parte de la siguiente. No escriba en el reverso de la hoja. La puntuación máxima es de 2,5 puntos

OPCIÓN A

- Analice la estructura interna de la ciudad española: casco antiguo, ensanche y periferias. Explique su evolución histórica.

OPCIÓN B

- Caracterice la agricultura española actual. Distinga secano y regadío y exponga sus principales problemas ambientales

ACADEMIA La llibreta
www.academialallibreta.es
Gran vía Fernando el Católico 23
46008 Valencia

EXAMEN DE PRÁCTICA: GEOGRAFÍA
MODELO B

PARTE 3

Bloque de 10 preguntas objetivas. CONTESTE ÚNICAMENTE 8. En caso de responder a más de 8 preguntas se tendrán en cuenta únicamente las 8 primeras. Cada acierto suma 0,25 puntos, cada error resta 0,1 y las preguntas en blanco no computan. VALOR TOTAL DE LA PRUEBA: 2 PUNTOS

1. ¿En qué vertiente desemboca el río Tajo?
a) Atlántica
b) Mediterránea
c) Cantábrica

2. Los ríos mediterráneos peninsulares, salvo excepciones, suelen ser...
a) muy regulares
b) irregulares y con fuerte estiaje
c) de régimen glaciar puro

3. Una cuenca hidrográfica es...
a) un territorio drenado por un río y sus afluentes
b) un lago artificial
c) una línea de cumbres

4. El plano ortogonal se caracteriza por...
a) calles irregulares
b) calles que se cortan formando ángulos rectos
c) vías concéntricas únicamente

5. El ensanche de Cerdà se desarrolló en...
a) Barcelona
b) Sevilla
c) Oviedo

6. El sector primario incluye...
a) agricultura y pesca
b) banca y seguros
c) transporte y comercio

ACADEMIA La llibreta
www.academialallibreta.es
Gran vía Fernando el Católico 23
46008 Valencia

EXAMEN DE PRÁCTICA: GEOGRAFÍA
MODELO B

7. La agricultura de regadío...
a) no necesita aportes de agua
b) recibe agua suplementaria a la lluvia
c) solo existe en el norte húmedo

8. La jerarquía urbana se refiere a...
a) la edad de los edificios
b) las relaciones y funciones entre ciudades de diferente rango
c) la altitud de las ciudades

9. El trasvase es...
a) la transferencia de agua entre cuencas
b) el origen de un delta
c) la infiltración del agua en un acuífero

10. La presión turística sobre el litoral puede generar...
a) reducción automática del consumo de agua
b) estacionalidad y presión urbanística
c) desaparición de todos los empleos

ACADEMIA La llibreta
www.academialallibreta.es
Gran vía Fernando el Católico 23
46008 Valencia

EXAMEN DE PRÁCTICA: GEOGRAFÍA
MODELO B

PARTE 4
PRUEBA PRÁCTICA

CONTESTE A UNA DE LAS DOS OPCIONES. Responda a continuación del enunciado. Su respuesta debe tener una extensión máxima de una hoja por las dos caras. Valor total 3 puntos.

OPCIÓN A

Caudal mensual de un río mediterráneo (datos didácticos)

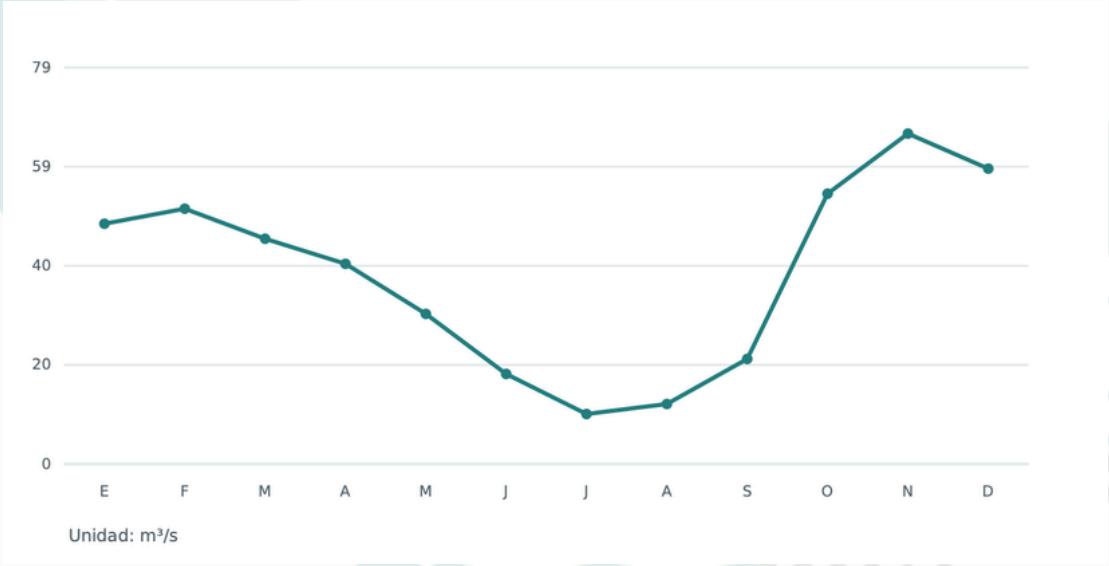

CUESTIONES:

1. Señale los meses de máximo y mínimo caudal y describa la variación estacional.
2. Determine el tipo de régimen fluvial más probable y justifique la respuesta.
3. Explique la influencia del clima, del relieve y de las actuaciones humanas en el caudal.
4. Analice dos problemas asociados a las crecidas o al estiaje y sus posibles soluciones.

ACADEMIA La llibreta
www.academialallibreta.es
Gran vía Fernando el Católico 23
46008 Valencia

EXAMEN DE PRÁCTICA: GEOGRAFÍA MODELO B

PARTE 4

OPCIÓN B

Usos del suelo en dos municipios (datos didácticos)

Uso del suelo	Municipio A (%)	Municipio B (%)
Residencial	38	12
Agrario	16	58
Industrial/comercial	22	8
Forestal y natural	12	19
Infraestructuras y otros	12	3

CUESTIONES:

1. Compare la estructura de usos del suelo de ambos municipios.
2. Señale cuál presenta un perfil más urbano y razone la respuesta.
3. Relacione los usos del suelo con actividades económicas, movilidad y paisaje.
4. Indique dos posibles conflictos territoriales y medidas de planificación sostenible.

ACADEMIA La llibreta
www.academialallibreta.es
Gran vía Fernando el Católico 23
46008 Valencia

EXAMEN DE PRÁCTICA: GEOGRAFÍA
MODELO C

PARTE 1

Responda únicamente a una de las dos preguntas que se plantean utilizando el espacio tasado en esta hoja y parte de la siguiente. No escriba en el reverso de la hoja. La puntuación máxima es de 2,5 puntos

OPCIÓN A

- Caracterice los paisajes agrarios de la España atlántica y mediterránea. Compare explotaciones, cultivos, poblamiento y condicionantes naturales.

OPCIÓN B

- Explique el fenómeno de la inmigración en España: causas, áreas de destino y principales efectos demográficos, sociales y económicos.

PARTE 2

Responda únicamente a una de las dos preguntas que se plantean utilizando el espacio tasado en esta hoja y parte de la siguiente. No escriba en el reverso de la hoja. La puntuación máxima es de 2,5 puntos

OPCIÓN A

- Describa la evolución y las características del turismo en España. Explique su distribución territorial y sus efectos.

OPCIÓN B

- Explique los contrastes entre el clima oceánico y el mediterráneo, con referencia a sus factores y riesgos naturales.

ACADEMIA La llibreta
www.academialallibreta.es
Gran vía Fernando el Católico 23
46008 Valencia

EXAMEN DE PRÁCTICA: GEOGRAFÍA
MODELO C

PARTE 3

Bloque de 10 preguntas objetivas. CONTESTE ÚNICAMENTE 8. En caso de responder a más de 8 preguntas se tendrán en cuenta únicamente las 8 primeras. Cada acierto suma 0,25 puntos, cada error resta 0,1 y las preguntas en blanco no computan. VALOR TOTAL DE LA PRUEBA: 2 PUNTOS

1. El paisaje agrario de bocage se caracteriza por...
a) parcelas cerradas
b) grandes campos sin límites
c) cultivos únicamente bajo plástico

2. El barbecho consiste en...
a) dejar descansar la tierra temporalmente
b) cultivar sin riego siempre
c) cultivar exclusivamente olivos

3. La tasa de natalidad relaciona los nacimientos con...
a) la superficie del país
b) la población total
c) el número de turistas

4. El saldo migratorio resulta de...
a) inmigrantes menos emigrantes
b) nacimientos menos defunciones
c) población activa menos inactiva

5. La terciarización supone...
a) el aumento del peso de los servicios
b) el retorno generalizado a la agricultura
c) el cierre de todas las industrias

6. La estacionalidad turística se refiere a...
a) la concentración de visitantes en determinadas épocas
b) la extensión del litoral
c) la edad de los turistas

ACADEMIA La llibreta
www.academialallibreta.es
Gran vía Fernando el Católico 23
46008 Valencia

EXAMEN DE PRÁCTICA: GEOGRAFÍA
MODELO C

7. El turismo de sol y playa se concentra especialmente en...
a) franjas litorales e islas
b) altas cumbres de la Meseta
c) valles interiores exclusivamente

8. Una pirámide regresiva suele mostrar...
a) base estrecha y peso relevante de edades adultas y mayores
b) base muy ancha
c) ausencia de población mayor

9. Las remesas son...
a) transferencias de dinero de migrantes a sus lugares de origen
b) impuestos sobre la vivienda
c) precipitaciones muy intensas

10. El cultivo del olivo es característico de...
a) buena parte de la España mediterránea
b) la alta montaña nival
c) las áreas polares

ACADEMIA La llibreta
www.academialallibreta.es
Gran vía Fernando el Católico 23
46008 Valencia

EXAMEN DE PRÁCTICA: GEOGRAFÍA
MODELO C

PARTE 4
PRUEBA PRÁCTICA

CONTESTE A UNA DE LAS DOS OPCIONES. Responda a continuación del enunciado. Su respuesta debe tener una extensión máxima de una hoja por las dos caras. Valor total 3 puntos.

OPCIÓN A

Pirámide de población de España (datos didácticos simulados)

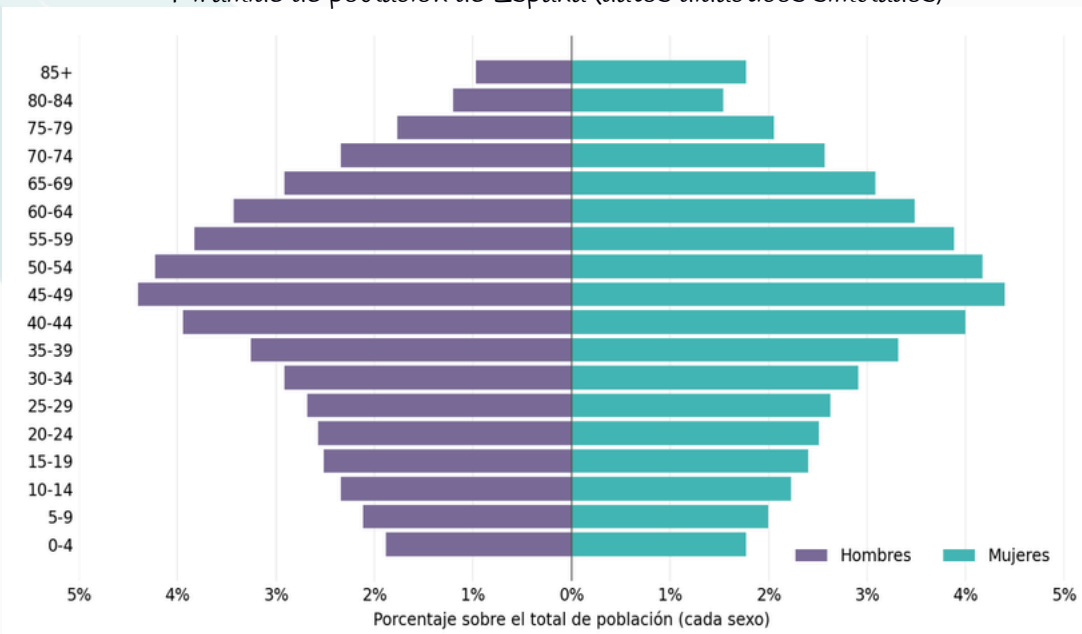

Fuente: elaboración propia. Distribución ficticia con fines educativos; no representa datos oficiales.

CUESTIONES:

1. Defina qué es una pirámide de población y explique qué representan sus ejes y los grupos de edad.
2. Describa la forma de la pirámide: base, zona central y cúspide. Identifique el tipo de estructura demográfica que refleja.
3. Analice las diferencias entre hombres y mujeres por edades y explique las posibles causas del mayor peso femenino en edades avanzadas.
4. Relacione la estructura observada con la natalidad, la esperanza de vida y el envejecimiento. Señale dos consecuencias y posibles respuestas.

ACADEMIA La llibreta
www.academialallibreta.es
Gran vía Fernando el Católico 23
46008 Valencia

EXAMEN DE PRÁCTICA: GEOGRAFÍA
MODELO C

PARTE 4

OPCIÓN B

Estacionalidad de visitantes en un destino turístico (datos didácticos)

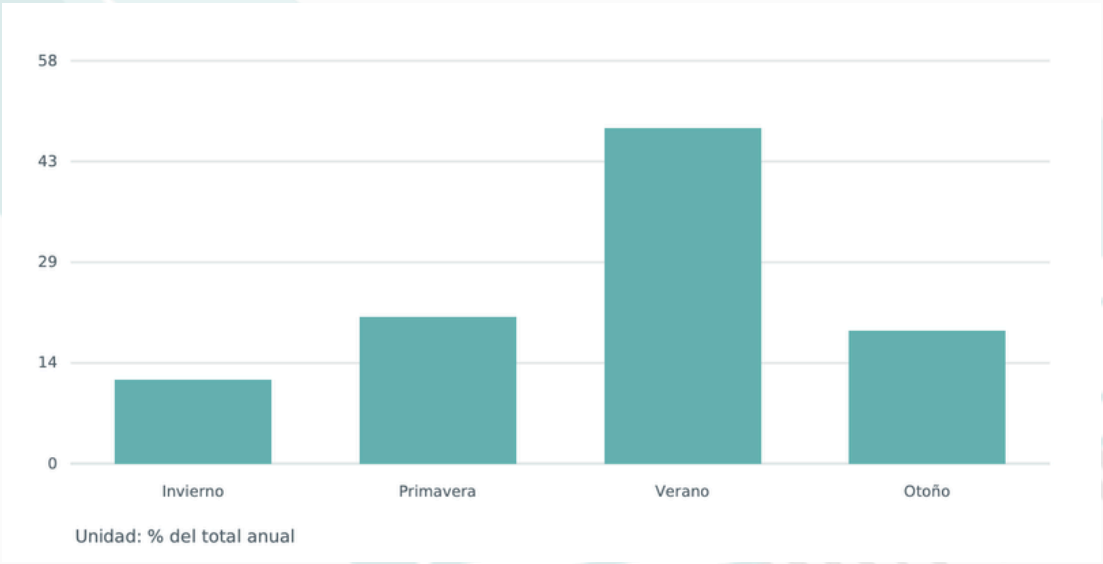

CUESTIONES:

1. Identifique la estación de máxima concentración de visitantes.
2. Explique qué modelo turístico podría representar y cuáles son sus factores de localización.
3. Analice los impactos económicos y ambientales de la concentración estacional.
4. Plantee medidas para diversificar y desestacionalizar la actividad.

ACADEMIA La llibreta
www.academialallibreta.es
Gran vía Fernando el Católico 23
46008 Valencia

EXAMEN DE PRÁCTICA: GEOGRAFÍA MODELO D

PARTE 1

Responda únicamente a una de las dos preguntas que se plantean utilizando el espacio tasado en esta hoja y parte de la siguiente. No escriba en el reverso de la hoja. La puntuación máxima es de 2,5 puntos

OPCIÓN A

- Explique la localización de la industria española, sus principales ejes, áreas de concentración y los factores de localización industrial.

OPCIÓN B

- Describa la organización político-administrativa de España y las competencias generales de los distintos niveles territoriales.

PARTE 2

Responda únicamente a una de las dos preguntas que se plantean utilizando el espacio tasado en esta hoja y parte de la siguiente. No escriba en el reverso de la hoja. La puntuación máxima es de 2,5 puntos

OPCIÓN A

- Caracterice el sistema energético español: fuentes renovables y no renovables, dependencia exterior y retos de transición energética.

OPCIÓN B

- Explique las características de los espacios naturales protegidos en España y los principales problemas ambientales que afrontan.

ACADEMIA La llibreta
www.academialallibreta.es
Gran vía Fernando el Católico 23
46008 Valencia

EXAMEN DE PRÁCTICA: GEOGRAFÍA
MODELO D

PARTE 3

Bloque de 10 preguntas objetivas. CONTESTE ÚNICAMENTE 8. En caso de responder a más de 8 preguntas se tendrán en cuenta únicamente las 8 primeras. Cada acierto suma 0,25 puntos, cada error resta 0,1 y las preguntas en blanco no computan. VALOR TOTAL DE LA PRUEBA: 2 PUNTOS

1. La industria automovilística pertenece al sector...
a) secundario
b) primario
c) terciario

2. Una fuente energética renovable es...
a) carbón
b) energía eólica
c) petróleo

3. La deslocalización industrial implica...
a) trasladar actividades productivas a otros territorios
b) instalar siempre fábricas en el centro urbano
c) sustituir todas las materias primas

4. ¿Cuántas comunidades autónomas tiene España?
a) 15
b) 17
c) 19

5. Las ciudades autónomas españolas son...
a) Ceuta y Melilla
b) Cádiz y Málaga
c) Pamplona y Logroño

6. La escala 1:100 000 significa que 1 cm en el mapa equivale a...
a) 1 km en la realidad
b) 100 km en la realidad
c) 100 m en la realidad

ACADEMIA La llibreta
www.academialallibreta.es
Gran vía Fernando el Católico 23
46008 Valencia

EXAMEN DE PRÁCTICA: GEOGRAFÍA
MODELO D

7. Una externalidad negativa industrial puede ser...
a) contaminación atmosférica
b) creación de conocimiento
c) aumento de productividad

8. Los parques nacionales persiguen principalmente...
a) la conservación de valores naturales destacados
b) la urbanización general del territorio
c) el incremento de suelo industrial

9. El efecto föhn suele producir en sotavento...
a) aire más seco y cálido
b) precipitación permanente
c) descenso obligatorio de temperaturas

10. La red urbana policéntrica se caracteriza por...
a) varios centros urbanos relevantes
b) un único núcleo y ningún otro
c) ausencia de transporte

ACADEMIA La llibreta
www.academialallibreta.es
Gran vía Fernando el Católico 23
46008 Valencia

EXAMEN DE PRÁCTICA: GEOGRAFÍA
MODELO D

PARTE 4
PRUEBA PRÁCTICA

CONTESTE A UNA DE LAS DOS OPCIONES. Responda a continuación del enunciado. Su respuesta debe tener una extensión máxima de una hoja por las dos caras. Valor total 3 puntos.

OPCIÓN A

Porcentaje de población extranjera en España durante el año 2015

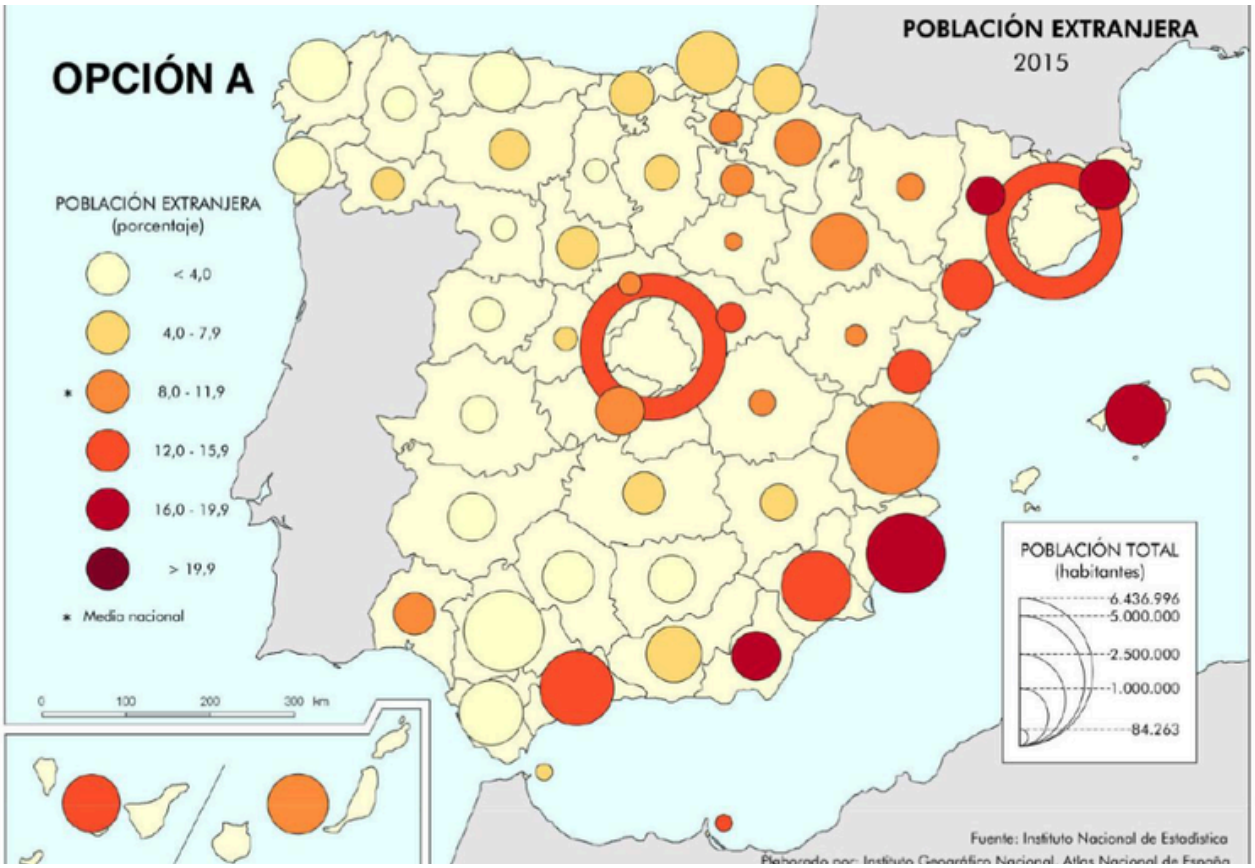

CUESTIONES:

1. Identifique el fenómeno representado y explique qué expresan el color y el tamaño de los círculos.
2. Localice las provincias con mayores porcentajes de población extranjera y compare sus valores con los de las provincias del interior.
3. Explique los factores económicos, territoriales y migratorios que ayudan a interpretar la distribución observada.
4. Comente dos consecuencias demográficas o económicas de la inmigración y señale por qué es necesario tener en cuenta el año del mapa.

ACADEMIA La llibreta
www.academialallibreta.es
Gran vía Fernando el Católico 23
46008 Valencia

EXAMEN DE PRÁCTICA: GEOGRAFÍA MODELO D

PARTE 4

OPCIÓN B

Composición de generación eléctrica (datos didácticos)

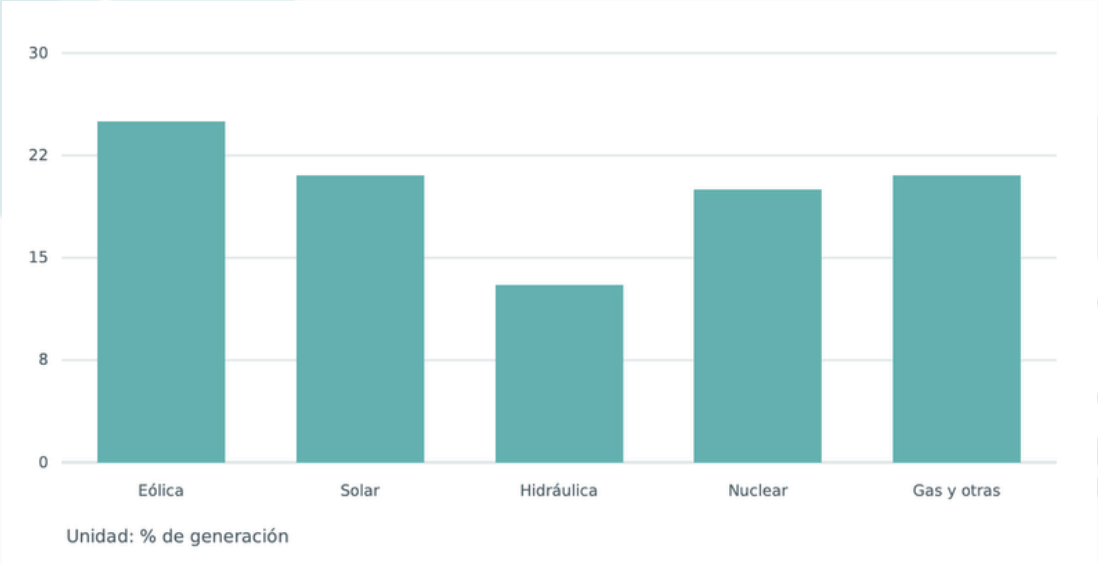

CUESTIONES:

1. Agrupe y calcule la participación conjunta de las fuentes renovables representadas.
2. Explique las diferencias entre fuentes renovables y no renovables.
3. Valore ventajas y limitaciones de la expansión de la energía eólica y solar.
4. Analice la relación entre transición energética, territorio y sostenibilidad.

ACADEMIA La llibreta
www.academialallibreta.es
Gran vía Fernando el Católico 23
46008 Valencia

EXAMEN DE PRÁCTICA: GEOGRAFÍA
MODELO E

PARTE 1

Responda únicamente a una de las dos preguntas que se plantean utilizando el espacio tasado en esta hoja y parte de la siguiente. No escriba en el reverso de la hoja. La puntuación máxima es de 2,5 puntos

OPCIÓN A

- Explique los factores que condicionan las precipitaciones en España y sus principales contrastes espaciales y estacionales.

OPCIÓN B

- Caracterice el crecimiento urbano español desde la segunda mitad del siglo XX y sus consecuencias territoriales.

PARTE 2

Responda únicamente a una de las dos preguntas que se plantean utilizando el espacio tasado en esta hoja y parte de la siguiente. No escriba en el reverso de la hoja. La puntuación máxima es de 2,5 puntos

OPCIÓN A

- Analice la problemática del agua en España: disponibilidad, demandas, sequías, gestión y posibles soluciones.

OPCIÓN B

- Explique las características del poblamiento rural español, su diversidad territorial y los procesos de despoblación.

ACADEMIA La llibreta
www.academialallibreta.es
Gran vía Fernando el Católico 23
46008 Valencia

EXAMEN DE PRÁCTICA: GEOGRAFÍA MODELO E

PARTE 3

Bloque de 10 preguntas objetivas. CONTESTE ÚNICAMENTE 8. En caso de responder a más de 8 preguntas se tendrán en cuenta únicamente las 8 primeras. Cada acierto suma 0,25 puntos, cada error resta 0,1 y las preguntas en blanco no computan. VALOR TOTAL DE LA PRUEBA: 2 PUNTOS

1. Una isoyeta es una línea que une puntos con igual...

a) altitud
b) temperatura
c) precipitación

2. Una rambla mediterránea suele ser...

a) un cauce de caudal muy irregular o temporal
b) un glaciar permanente
c) un lago artificial

3. Una DANA puede asociarse a...

a) episodios de precipitación muy intensa
b) ausencia necesaria de nubes
c) una marea oceánica

4. La desertificación es...

a) un aumento automático de bosques
b) la degradación de tierras en zonas secas por diversos factores
c) la formación exclusiva de desiertos polares

5. La huella hídrica considera...

a) la longitud de los ríos
b) solo agua embotellada
c) agua utilizada directa e indirectamente para producir bienes y servicios

6. La isla de calor urbana implica...

a) temperaturas urbanas superiores a las del entorno en determinadas condiciones
b) enfriamiento permanente de toda ciudad
c) más nevadas cada día

ACADEMIA La llibreta
www.academialallibreta.es
Gran vía Fernando el Católico 23
46008 Valencia

EXAMEN DE PRÁCTICA: GEOGRAFÍA
MODELO E

7. Los SIG permiten...
a) eliminar la necesidad de datos
b) analizar información georreferenciada
c) medir solo precipitaciones

8. La erosión del suelo se agrava con...
a) deforestación y lluvias intensas
b) cobertura vegetal protectora
c) terrazas bien mantenidas

9. La tasa de urbanización expresa...
a) número de ríos por región
b) porcentaje de suelo forestal
c) porcentaje de población que vive en áreas urbanas

10. Un plan de ordenación urbana regula...
a) el régimen de mareas
b) usos del suelo y crecimiento de la ciudad
c) la latitud geográfica

ACADEMIA La llibreta
www.academialallibreta.es
Gran vía Fernando el Católico 23
46008 Valencia

EXAMEN DE PRÁCTICA: GEOGRAFÍA
MODELO E

PARTE 4
PRUEBA PRÁCTICA

CONTESTE A UNA DE LAS DOS OPCIONES. Responda a continuación del enunciado. Su respuesta debe tener una extensión máxima de una hoja por las dos caras. Valor total 3 puntos.

OPCIÓN A

Precipitación anual comparada (datos didácticos)

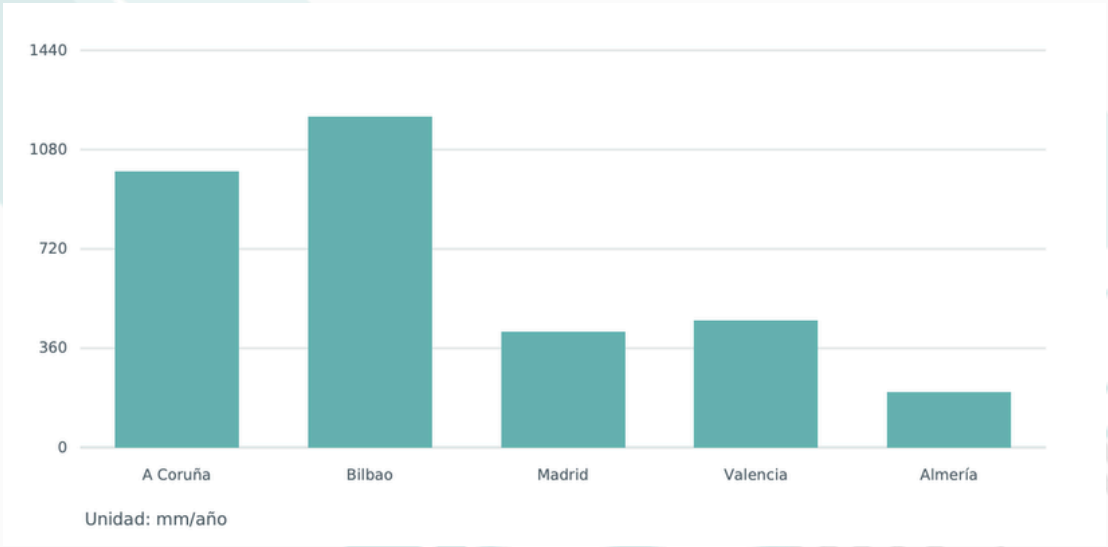

CUESTIONES:

1. Describa los principales contrastes pluviométricos entre las estaciones representadas.
2. Relacione la distribución observada con la circulación atmosférica, el relieve y la posición geográfica.
3. Explique por qué la cantidad anual de lluvia no describe por sí sola el riesgo de inundaciones.
4. Proponga medidas frente a sequías y precipitaciones extremas.

ACADEMIA La llibreta
www.academialallibreta.es
Gran vía Fernando el Católico 23
46008 Valencia

EXAMEN DE PRÁCTICA: GEOGRAFÍA MODELO E

PARTE 4

OPCIÓN B

Morfología urbana de las ciudades españolas



CUESTIONES:

1. Explique qué es la morfología urbana y qué elementos permiten identificarla en un plano. Indique los principales tipos de planos urbanos.
2.Identifique en el plano las diferentes tramas urbanas que se observan. Describa sus características y señale las principales diferencias entre el casco histórico y el ensanche.
3. Explique cómo ha evolucionado la morfología de las ciudades españolas desde la ciudad preindustrial hasta la ciudad contemporánea. Relacione las principales transformaciones urbanísticas con los cambios económicos, sociales y demográficos.
4. Señale los principales problemas que presentan los centros históricos y las periferias urbanas. Proponga medidas que permitan mejorar la sostenibilidad y la calidad de vida de las ciudades españolas.

La llibreta
ACADEMIA

CURSOS PCE

Sigue preparando tu examen con La llibreta

Además de este cuaderno, encontrarás cursos y recursos para preparar la PCE paso a paso, resolver dudas y practicar con acompañamiento.
Elige el curso que mejor encaje contigo:



PCE ANUAL



PCE INTENSIVO



ESPAÑOL + INTENSIVO



PCE ONLINE



PRE-SELECTIVIDAD



PCE EXPRÉS

666875860

info@academialallibreta.es

www.academialallibreta.es